3 Représenter le temps : la frise chronologique

A Comment représenter le temps qui passe ?

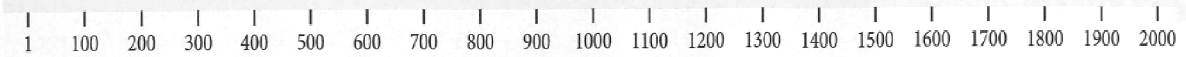

La frise chronologique représente le temps qui passe. Elle est comme un ruban, avec le passé à gauche et le présent à droite. Elle se termine par une flèche pour indiquer que le temps n'est pas terminé.

1 Avec ton doigt, montre où se trouve le passé ; où se trouve le présent.

2 À ton avis, où se trouve le futur ?

3 Pourquoi, sur la frise, y a-t-il une flèche à droite et pas à gauche ?

B Comment situer des événements sur la frise ?

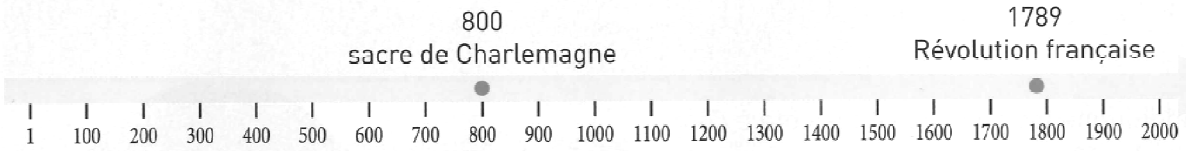

Sur une frise chronologique, on représente un événement par un point ou une croix, à la date précise où il a eu lieu.

4 Que s'est-il passé en 1789 ?

5 À quelle date le sacre de Charlemagne a-t-il eu lieu ? Était-ce avant ou après 1789 ?

6 Où se trouvent les événements les plus anciens : à droite ou à gauche de la frise ?

C Comment situer des périodes sur la frise ?



Sur une frise chronologique, on représente une période en coloriant le temps correspondant : les jours, les mois, les années ou même les siècles.

7 Le Moyen Âge a-t-il eu lieu avant ou après les Temps modernes ?

8 A-t-il duré plus ou moins longtemps que les Temps modernes ? Justifie ta réponse.

D Que s'est-il passé avant la naissance de Jésus ?

Avant la naissance de Jésus, des personnes vivaient déjà, des événements ont eu lieu... Par exemple, il y a eu une grande bataille dans notre pays 52 années avant la naissance de Jésus. On dit que cet événement a eu lieu en 52 avant Jésus-Christ. On écrit 52 av. J.-C. ou – 52.

9 Sur la frise chronologique ci-dessous, la bataille d'Alésia se trouve-t-elle à gauche ou à droite de l'an 1 ? Pourquoi ?



E Les frises chronologiques sont-elles toutes pareilles ?



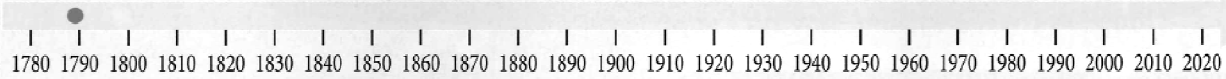

10 Observe la première frise : la Révolution française se trouve-t-elle à gauche ou à droite ? En quelle année a-t-elle eu lieu ?

11 Observe la seconde frise : la Révolution française se trouve-t-elle à gauche ou à droite ? En quelle année a-t-elle eu lieu ?

12 Quand la première frise chronologique commence-t-elle ? Quand se termine-t-elle ? et la seconde ?

13 Peux-tu expliquer pourquoi la Révolution française ne se trouve pas au même endroit sur les deux frises ?

14 Où placerais-tu le couronnement de Charlemagne sur la première frise ? sur la seconde ?

Les frises chronologiques peuvent être différentes selon ce que l'on veut situer. Certaines représentent un temps très long, d'autres un temps plus court.

Ce que j'ai compris

Trace une frise chronologique et place dessus une date et une période de ton choix.

Écris de deux manières différentes la date de la bataille d'Alésia.

Ma boîte à mots

chronologique : dans l'ordre du temps, du plus ancien au plus récent.